子洲中学 2018～2019 学年度第一学期期末考试

高二地理试题

注意事项：

1. 本试卷共 8 页，全卷满分 100 分，答题时间 100 分钟；

2. 答卷前，考生须准确填写自己的姓名、班级、学号，并认真核准条形码上的姓名、班级、学号；

3. 第Ⅰ卷选择题必须使用2B 铅笔填涂，第Ⅱ卷非选择题必须使用0.5 毫米黑色墨水签字笔书写，涂写要工整、清晰；

4. 考试结束后，监考员将答题卡按顺序收回，装袋整理；试题卷不回收。

第Ⅰ卷（选择题　共 50 分）

一、单项选择题（本大题共 25 小题，每小题 2 分，计 50 分。在每小题给出的四个选项中只有一项是符合题目要求的。）

下图示意南美洲部分区域地理分区状况。读图完成 1～3 题。

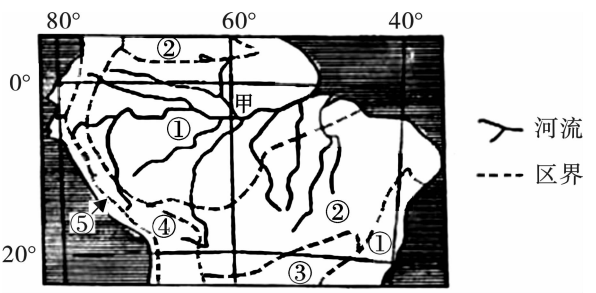

1. 图中各地理分区之间具有

A. 显著的差异性　　B. 明确的分界线　　C. 明显的一致性　　D. 绝对的独立性

2. 图示地理分区可能为

A. 经济区　　B. 人口区　　C. 气候区　　D. 农业区

3. 国际社会呼吁重视图中甲所在流域的森林保护，其主要原因是森林可以

A. 涵养水源，保持水土　　B. 吸烟滞尘，净化空气

C. 提供木材和林副产品　　D. 维持大气的碳氧平衡

北京时间 2018 年 11 月 19 日 2 时 7 分，中国在西昌卫星发射中心用长征三号乙运载火箭，以“一箭双星”方式成功发射第 42、43 颗北斗导航卫星。此次任务的成功发射，标志着我国北斗三号

基本系统星座部署圆满完成。据此,回答4~5题。

4. 北斗卫星导航系统可以广泛用于

A. 灾害评估　　B. 作物估产　　C. 勘测矿产　　D. 抢险救灾

5. 基于北斗系统,应用地理信息系统对城市轨道线路规划需要用到的图层是

A. 大气质量图层　　B. 人口分布图层

C. 矿产分布图层　　D. 土壤类别图层

下图为某区域某种自然资源储量和需求量的关系图。读图回答6~7题。

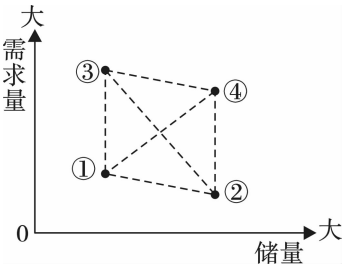

6. 四地中资源储量最小,而需求量最大的是

A. ①　　B. ②　　C. ③　　D. ④

7. 四地间该资源最有可能产生跨区域调配现象的是

A. ①→②　　B. ②→③　　C. ③→④　　D. ④→①

白洋淀地处京、津、石腹地,水域辽阔,烟波浩渺,势连天际,总面积366平方公里。是帝王巡幸之所,“荷花淀派”诞生之地,雁翎神兵扬威之处,“小兵张嘎”造就之域。20世纪80年代中期开始,白洋淀水位下降,经常处于半干涸、干涸状态。读白洋淀流域图(下图),完成8~9题。

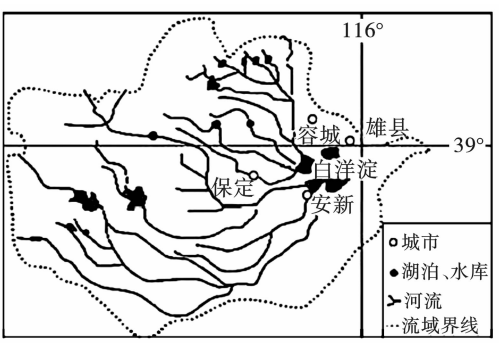

8. 20世纪80年代中期,白洋淀经常处于半干涸、干涸状态的原因可能是

A. 流域内降水量和蒸发量小　　B. 农业机械化水平高

C. 上游修水库导致入湖水量减小　　D. 工农业发达,城市化水平高

9. 为保护和恢复白洋淀湿地可采取的措施是

A. 跨流域调水　　B. 填埋部分河道作为建设用地

C. 暂缓开发区域经济　　D. 加大第二产业的发展力度

读“美国本土部分农业带(区)分布示意图”(下图),回答 10～11 题。

10. 图示小麦区分为南北两个区域,北部为春小麦区,南部为冬小麦区。产生这种差异的主要条件是

A. 降水多少不同　　B. 地形高低不同

C. 光照多少不同　　D. 气温高低不同

11. 为了保证商品谷物地域的土壤肥力,应采取的措施是

A. 兴修水利发展灌区　　B. 实行休耕和轮作

C. 免费提供农业科技成果　　D. 实施农业生产区域化

榆林市位于陕北黄土高原和毛乌素沙地交界处,是黄土高原和内蒙古高原的过渡区,被誉为“中国的科威特”。读下图,完成 12～13 题。

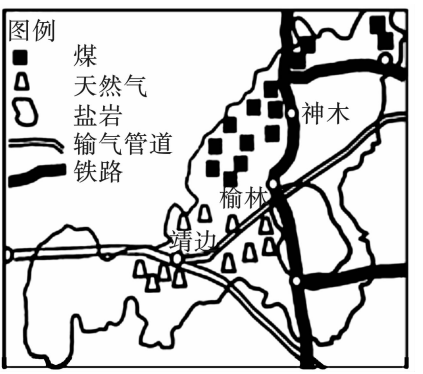

12. 榆林市被称为“中国的科威特”的原因最有可能是

A. 荒漠广布　　B. 地表植被覆盖率低

C. 降水稀少　　D. 煤炭、天然气资源丰富

13. 改革开放初期榆林市经济发展较慢的最主要原因是

A. 矿产资源贫乏　　B. 产品附加值高

C. 经济结构单一　　D. 无改革优惠政策

读下图,回答 14 ~ 16 题。

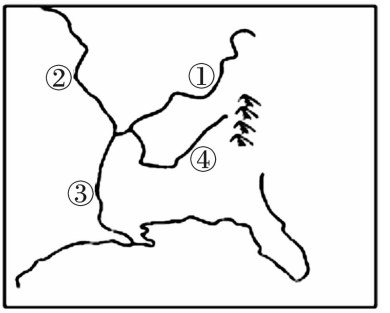

14. 图中① ~ ④代表田纳西河的是

A. ①　　B. ②　　C. ③　　D. ④

15. 下列有关田纳西河流域自然背景的叙述,正确的是

A. 田纳西河落差较大,且水量不稳　　B. 流域内气候温暖湿润,雨热同期

C. 流域内多高原与盆地,地势起伏大　　D. 流域内煤、铝土、石油资源丰富

16. 田纳西河流域进行综合开发治理形成了全国最大的

A. 林牧基地　　B. 电力供应基地　　C. 钢铁基地　　D. 石油化工基地

下图示意江苏省与辽宁省城市化率变化。读图,完成 17 ~ 18 题。

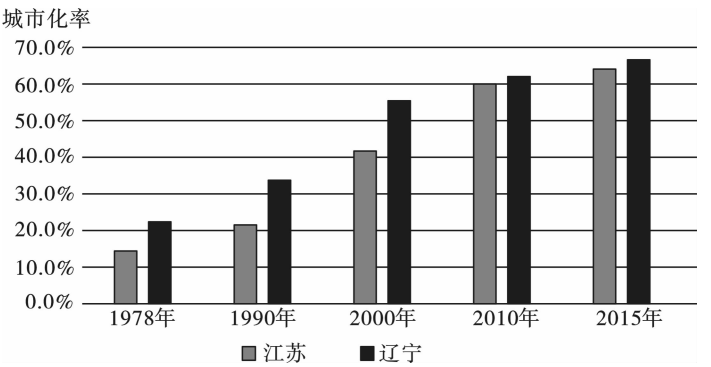

17. 与辽宁省相比,江苏省城市化

A. 起步早、水平高　　B. 起步早、水平低

C. 起步晚、水平低　　D. 起步晚、水平高

18. 辽宁省工业化与城市化的主要动力是

A. 对外开放—外资企业建立　　B. 小商品经营—个体私营企业发展

C. 大城市扩散—乡镇企业发展　　D. 矿产资源开发—国有大中型企业建立

目前,上海市正计划用 3 ~ 5 年时间把四万余家石油、化工、纺织等企业转移出沪。此次上海产业转移将向江西倾斜,重点是九江。据此并结合下图完成 19 ~ 21 题。

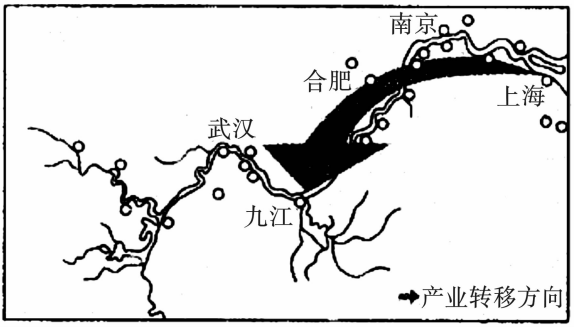

19. 上海市产业转移后，将重点发展

A. 钢铁工业　　B. 电子工业　　C. 房地产业　　D. 旅游业

20. 上海此次产业转移的重点是九江，而非合肥，主要是因为九江

A. 生产成本低　　B. 交通便利　　C. 产业基础好　　D. 市场广阔

21. 九江市承接产业转移，可以

A. 完成产业升级　　B. 改善城市环境　　C. 缓解能源不足　　D. 扩大就业机会

下图为我国天然气资源生产与消费的空间迁移情况示意图。读图，完成 22 ~ 23 题。

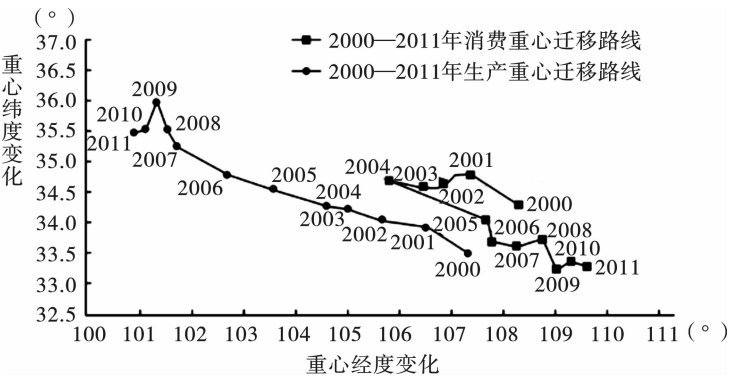

22. 2000 年，我国天然气资源的生产重心接近

A. 四川盆地　　B. 塔里木盆地　　C. 鄂尔多斯高原　　D. 柴达木盆地

23. 从 2000 年 ~ 2011 年，我国天然气生产重心迁移的原因是

A. 西部地区的天然气资源枯竭

B. 西部地区的天然气资源大规模开发

C. 中东部地区的天然气资源枯竭

D. 西部地区的天然气资源大规模向东部输送

下图为珠江三角洲地区产业结构变化和工业总产值增长图。读图，完成 24 ~ 25 题。

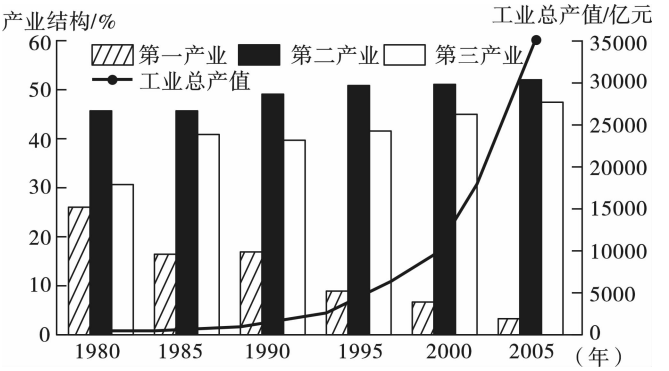

24. 改革开放早期,珠江三角洲为外商提供

A. 生产技术　　B. 管理经验　　C. 服务设施　　D. 原料配件

25. 1990 年以后,珠江三角洲

A. 第二产业比重持续提高　　B. 2005 年第三产业产值最高

C. 城市人口、数量迅速增加　　D. 建立了大批日用消费品加工工厂

第Ⅱ卷(非选择题　共 50 分)

二、非选择题(本大题共 4 小题,计 50 分)

26. (11 分)阅读材料,回答下列问题。

材料一:我国部分商品农业基地分布图(下图)。

材料二:甲、乙两区域平原地区主要农作物对比表(下表)。

区域	粮食作物	经济作物
甲	水稻	油菜、棉花等
乙	春小麦、玉米	甜菜、大豆等

(1)图中甲地为_____气候,乙地为_____气候,两地种植农作物差异产生的最主要的自然因素是_____的差异。(3 分)

(2)随着工商业的发展,甲地全国“粮仓”的地位下降的原因有哪些?(4 分)

(3)简述乙区域平原地区农业发展的方向。(4 分)

27.(12 分)阅读图文材料,回答下列问题。

材料一:“红色荒漠”是指发生在我国南方湿润红土地区的土地荒漠化。这些地区地形以丘陵及山区为主,植被覆盖率在 30% 以下。

材料二:下图为“红色荒漠”形成结构示意图。

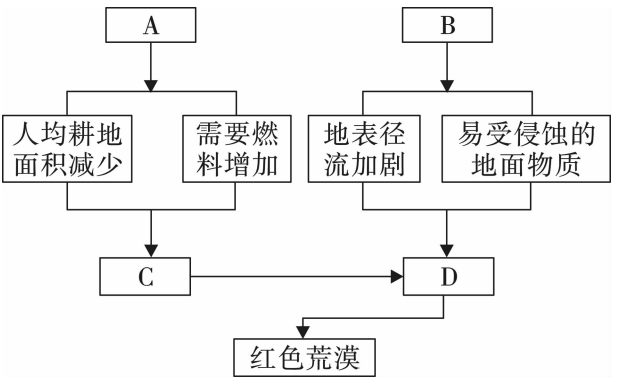

(1)图中字母表示水土流失、人口增加、滥伐森林、高温多雨等条件,请写出各个字母所代表的含义,完成“红色荒漠”结构示意图。(4 分)

A _____,B _____,C _____,D _____。

(2)简述南方地区“红色荒漠”造成的不利影响。(4 分)

(3)简要说明南方地区土地荒漠化的防治措施。(4 分)

28.(13 分)阅读图文材料,完成下列问题。

金沙江、澜沧江、怒江穿越崇山峻岭,在云南省境内并行奔流 170 多千米,形成了“三江并流”这一世界上绝无仅有的高山峡谷景观。下图示意“三江并流”及其附近地区。

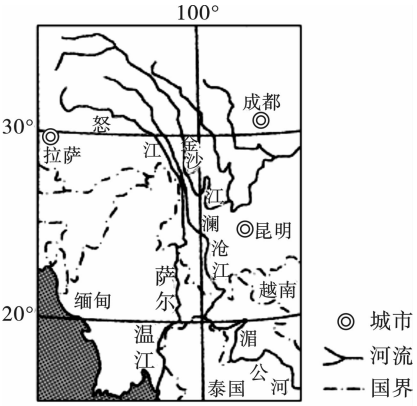

(1)简述“三江并流”地区地形对河流的影响。(6 分)

(2)若在澜沧江流域进行梯级开发,推测适宜大坝截流的季节并说明理由。(3 分)

(3)分析澜沧江梯级开发对其航运的有利影响。(4 分)

29.(14 分)下面左图为中国山西省,右图为德国鲁尔工业区,读图,回答下列问题。

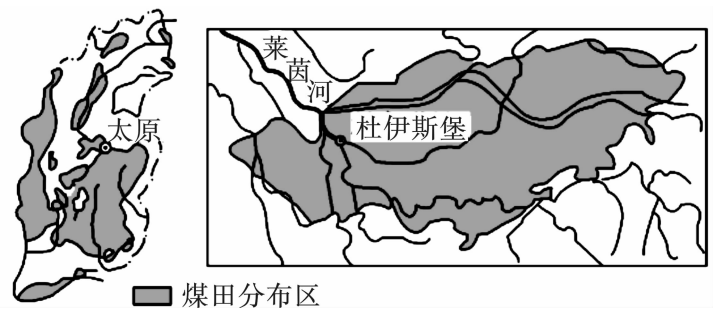

(1)中国山西省和德国鲁尔区最重要的工业部门都是_____。它们均拥有丰富的_____(能源)资源,20 世纪 60 年代以来,该能源的优势地位逐渐被_____和天然气所取代。(3 分)

(2)近几十年来,鲁尔区的部分重工业布局向港口城市靠近,主要是为了充分利用港口城市的_____优势。(1 分)

(3)从所给资料分析,与山西省相比,德国鲁尔区发展所具备的优势条件有哪些?(4 分)

(4)借鉴德国鲁尔区综合整治的经验,请你为山西省的可持续发展献计献策。(6 分)

子洲中学2018～2019学年度第一学期期末考试

高二地理试题参考答案及评分标准

一、单项选择题(本大题共25小题,每小题2分,计50分)

1. A　2. C　3. D　4. D　5. B　6. C　7. B　8. C　9. A　10. D

11. B　12. D　13. C　14. D　15. A　16. B　17. C　18. D　19. B　20. A

21. D　22. A　23. B　24. C　25. C

二、非选择题(本大题共4小题,计50分)

26.(11分)(1)亚热带季风　温带季风　热量(或气候或纬度)(每空1分,共3分)

(2)人多地少,人均耕地面积小;耕地破碎;农业种植结构的调整;生态退耕;非农业用地增加。(任答出其中2点即可,每点2分,共4分)

(3)强化商品粮基地建设;对农产品进行深加工,延长产业链;提高产品质量和竞争力;建设绿色食品基地。(任答出其中2点即可,每点2分,共4分)

27.(12分)(1)人口增加　高温多雨　滥伐森林　水土流失(每空1分,共4分)

(2)表层土壤流失,土地生产力下降,粮食减产;当地地表变得崎岖不平;下游易淤积河道和湖泊。(任答出其中2点即可,每点2分,共4分)

(3)控制人口数量,提高人口素质;调整土地利用结构;发展农业技术;积极开发新型能源;退耕还林,恢复植被等。(任答出其中2点即可,每点2分,共4分。其他答案言之有理可酌情给分)

28.(13分)(1)地势起伏大使河流落差大,流速快,含沙量增大;地势北高南低使河流自北向南流;高山峡谷地区三江并流,使流域面积较小。(每点2分,共6分)

(2)冬季。(1分)该季节降水少,河流流量较小;滑坡、泥石流等地质灾害较少,易于施工。(任答出其中1点即可给2分)

(3)库区水流变缓、水位上升,改善航行条件,延长通航里程,提高航行安全性;利用水库的调蓄能力,调节下游河流径流量,延长适航时间;通过水坝调水减少下游航道淤积。(任答出其中2点即可,每点2分,共4分)

29.(14分)(1)煤炭工业　煤炭　石油(每空1分,共3分)

(2)水运(或交通)(1分)

(3)鲁尔区有充沛的水源;地形更平坦;地理位置更优越;水陆交通更发达;工业基础更雄厚;市场更广阔;科技力量更强等。(任答出其中2点即可,每点2分,共4分)

(4)调整优化产业结构;加快发展新兴工业和服务业;加大科技投入,提高资源利用率;调整优化工业布局;延长产业链,增加附加值;拓展交通,完善交通网,加快晋煤外运;治理环境污染,美化环境等。(任答出其中3点即可,每点2分,共6分)