2018年秋学期贺州市非示范性高中

高一期考地理试题

命题学校：桂岭中学　　命题人：陈国英　　审题人：张雪梅

考试总分：100分 考试时间：90分钟

注意事项：

1．答题前填写好自己的姓名、班级、考号等信息;

2．请将答案正确填写在答题卡上;

卷I（选择题）

一、选择题（共25小题，每小题2分，共50分）

“太阳大，地球小，太阳带着地球跑；地球大，月亮小，地球带着月亮跑。”重温儿时的童谣，完成1-2题。

1. 童谣中出现的天体属于

①太阳系 ②地月系 ③银河系 ④河外星系 ⑤总星系

A. ①②③⑤　　B. ①②③④⑤

C. ①②④⑤　　D. ①③④⑤

2. 童谣中涉及的天体系统共有

A. 1级　　B. 2级　　C. 3级　　D. 4级

2018年4月18日至4月22日为广西各地“壮族三月三”法定假日，假期期间，广西人民旅游出行达到高峰，“三月三”这个世界已被广西人包场。据此完成3-5题。

3. 我们日常生活中所说的一天是指

A. 地球自转的真正周期　　B. 地球公转的周期

C. 一个恒星日　　D. 一个太阳日

4. 广西“三月三”假期期间，地球公转线速度总体变化是

A. 越来越快　　B. 先变快后变慢

C. 越来越慢　　D. 先变慢后变快

5. 广西“三月三”假期期间，太阳直射点的位置和移动方向是

A. 南半球，向北移　　B. 北半球，向北移

C. 北半球，向南移　　D. 南半球，向南移

由 扫描全能王 扫描创建

中国地震台网正式测定：12 月 16 日 12 时 46 分在四川宜宾市兴文县发生 5.7 级地震，震源深度 12 千米 。据此完成 6-8 题。

6. 此次四川宜宾市兴文县地震的震源位于

A. 地壳　　B. 上地幔　　C. 下地幔　　D. 地核

7. 地震的能量来源是

A. 太阳辐射能

B. 生物转化而成的化学能

C. 地球重力能

D. 地球内部放射性物质衰变产生的热能

8. 地震发生以后，建筑物并不会马上倒塌，一般都要间隔约 12 秒，这就是地震救援领域所说的“黄金 12 秒”，在这 12 秒中人们可以决定是躲是逃。根据所学知识推断“黄金 12 秒”确定的依据是

A. 横波和纵波的传播速度差异

B. 人体对紧急事件的生理反应能力

C. 横波和纵波的传播介质差异

D. 建筑物的抗震系数

2018 年 12 月 18 日，庆祝改革开放 40 周年、自治区成立 60 周年献礼电影《又是一年三月三》研讨会在北京举行。甲子如歌岁月，60 载春华秋实。森森八桂郁参天，丰富的地貌类型孕育旺盛生机，据此完成 9-10 题。

9.塑造桂林地貌的主要外力作用是

A. 冰川侵蚀　　B. 流水侵蚀

C. 海浪侵蚀　　D. 风力侵蚀

10. 在电影中，南山隧道修建的地质构造是

A. 向斜　　B. 背斜　　C. 断层　　D. 褶皱

由 扫描全能王 扫描创建

当地时间 2018 年 4 月 30 日，《联合国气候变化框架公约》（ UNFCCC)框架下的新一轮气候谈判在德国波恩开幕。缔约方代表将就进一步制定实施气候变化《巴黎协定》的相关准则展开谈判，以期使该协定能够在操作层面得以落实。据此完成 11-12 题。

11. 下列有关全球变暖的主要人为原因，叙述正确的是

A. 植被破坏，导致沙尘天气增多，大气逆辐射增强

B. 冰箱、空调使用时释放氟氯烃，使紫外线增加

C. 矿物能源的大量燃烧，使大气中 CO_2 量增大

D. 近现代地壳运动频繁，火山喷发导致大气中的热量剧增

12. 全球变暖会导致

A. 大气中温室气体排放增多，浓度增加

B. 全球平均海平面升高，山地永久积雪下限上升

C. 全球平均降水量持续增加，地球淡水资源增加

D. 高纬地区降水增多，大陆冰川面积扩大

读下图, 回答 13-14 题

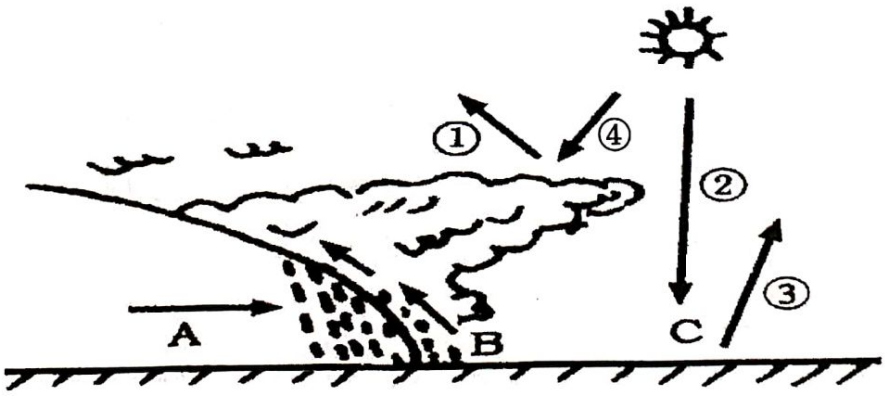

13. 该图表示天气系统是

A. 暖锋　　B. 冷锋　　C. 气旋　　D. 反气旋

14. 图中表示地面辐射的是____（数字）。

A. ①　　B. ②　　C. ③　　D. ④

15.图中不能正确表示热力环流的是（ ）

由 扫描全能王 扫描创建

A.

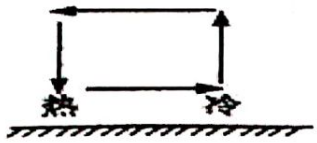

B.

C.

D.

读下面循环示意图，回答 16-17 题

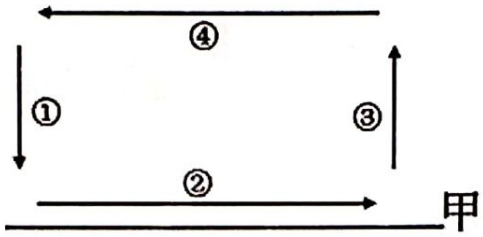

16.如果该图为海陆间水循环模式图，甲线代表地球表面，则（ ）

A.目前人类活动只能对环节①产生影响

B.环节②是陆地自然带形成的基础

C.不同性质的洋流会影响环节③的强弱

D.环节④的运动距离与下垫面无关

17.如果该图为中低纬度某海域洋流分布图，甲线代表纬线，则下列叙述正确的是（ ）

A.①洋流由高纬度流向低纬度

B.该海域位于北大西洋

C.②洋流属于暖流

D.③洋流增加了沿岸的干燥度

自治区成立 60 周年，中央代表团给广西赠送一套名叫《守望相助》的茶具岁月，其由茶具一壶、八杯配托盘组成，寓意八桂大地上的各民族丹心向党、守望相助。

18. 广西适宜种植茶叶的自然条件不包括（ ）

A. 地形以丘陵为主　　B. 酸性土壤

C. 昼夜温差大　　D. 光热条件好

由 扫描全能王 扫描创建

读世界局部季风示意图，回答 19-21 题。

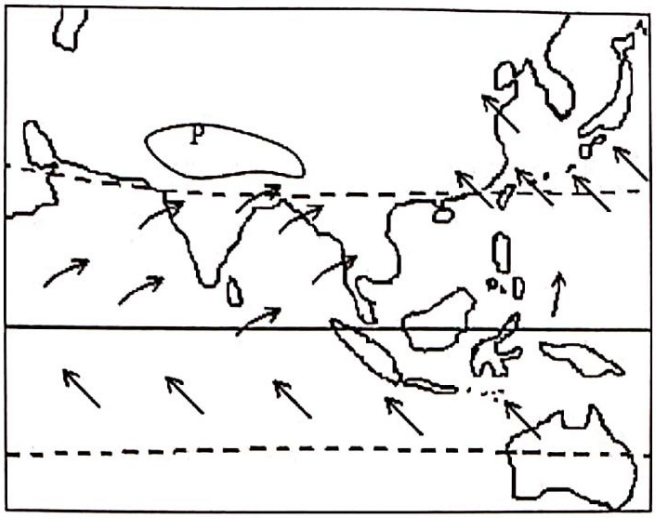

19. 全球季风气候最典型的地区分布在

A. 亚洲东部和南部　　B. 北美洲东部

C. 欧洲西部　　D. 澳大利亚西部

20. 根据风向确定此时最可能是

A. 1 月左右　　B. 3 月左右

C. 7 月左右　　D. 12 月左右

21. P 气压中心是

A. 副热带高压　B. 蒙古高压　C. 极地低压　D. 印度低压

2018 年 9 月 7 日 20 时，台风“山竹”在西北太平洋洋面上生成；9 月 15 日，台风"山竹"从菲律宾北部登陆。9 月 18 日 17 时，台风“山竹”已造成广东、广西、海南、湖南、贵州 5 省（区）近 300 万人受灾，5 人死亡，1 人失踪。据此，回答 22-23 题。

22. 下列四图中能正确表示台风“.山竹”气流运动状况的是(　　.　)

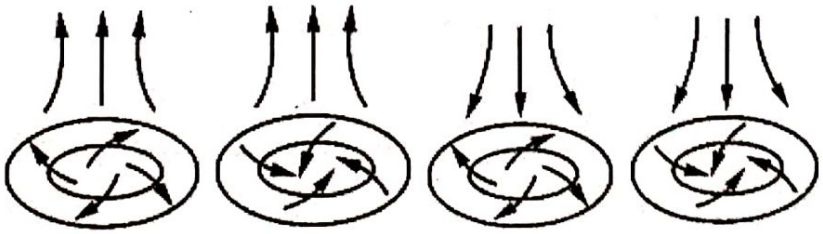

A　　B　　C　　D

由 扫描全能王 扫描创建

23. 减轻台风灾害对我国的影响，最重要的措施是(　　)

A. 植树造林，修建各种水利设施

B. 台风季节做好沿海居民的迁移工作

C. 进行人工消雨作业，减弱台风的暴雨和风速

D. 加强对台风的监测和预报

右图为“某地垂直自然带谱示意图”，读图回答 24—25 题。

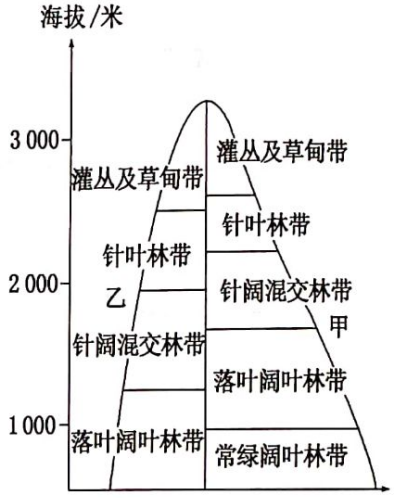

24. 垂直自然带谱反映了(　　)

A. 该山地可能位于云贵高原

B. 经度地带性规律

C. 甲坡的水热状况优于乙坡

D. 水分差异导致植被类型不同

25. 乙坡山麓地带的气候类型是(　　)

A. 温带海洋性气候　　B. 亚热带季风气候

C. 地中海气候　　D. 温带季风气候

卷 II（综合题）

26. 下图为我国某地地质剖面图，读图完成下列各题（12 分）

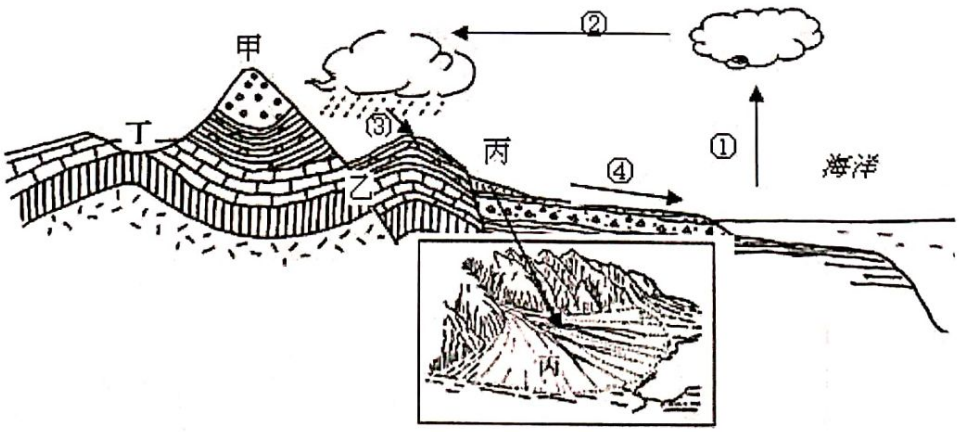

（1）乙地的地质构造是_____，丁地的地质构造是_____。（2 分）

（2）图中②环节的名称是_____，①②③④构成的水循环属于_____循环，此循环可使_____水得到补充和更新。（3 分）

（3）甲地地貌是____，简述其形成原因。（3 分）

（4）指出图中丙处的地貌类型，并说明其形成过程。（4 分）

由 扫描全能王 扫描创建

27. 读图回答下列问题。（12 分）

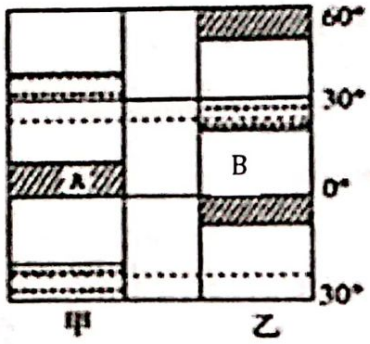

图 1 气压带和风带季节移动示意图

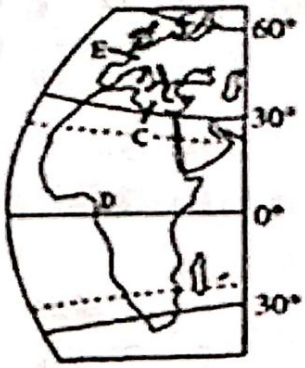

图 2 世界海陆分布的局部示意图

（1） A 气压带名称为_____，B 风带名称为_____。（2 分）

（2） 依据甲图气压带位置判断，此时北半球为_____季（选填“夏”或“冬”）。亚欧大陆上形成_____气压中心（选填“高”或“低”）。（2 分）

（3） 结合图 1 知，图 2 中 C 海沿岸受_____气压带和_____ 风带交替控制。（2 分）

（4） 图 2 中 C 海沿岸气候类型的是_____，它的自然带是_____，其气候特征可概括为冬季_____、夏季_____（4 分）

（5） 影响 D、E 两地气候特征的差异，主要因素是_____ 和_____。（2 分）

28. 读太平洋洋流分布示意图，完成下列问题（12 分）

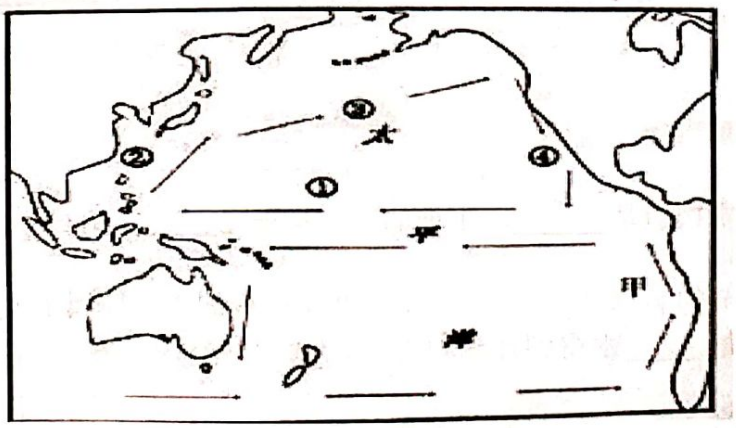

(1) 图中甲处为_____渔场，成因是_____。（3 分）

由 扫描全能王 扫描创建

（2） 按洋流的性质划分，②④分别是_____流、_____流；其对沿岸气候的影响分别是_____、_____。（4 分）

（3）若图中②海区发生石油泄漏，洋流对其有何影响？（2 分）

_____

（4）图中①②③④洋流主要受信风带影响形成的是_____，其中洋流③的名称是_____。（3 分）

29. 读下图，回答下列问题。 （14 分）

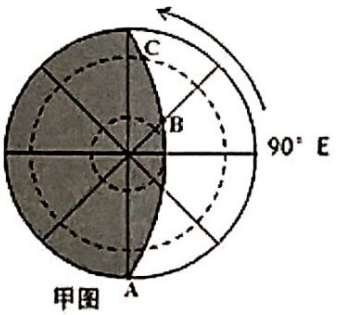

甲图

（1）甲图代表北半球节气是_____，此时太阳直射点的地理坐标是_____。（3 分）

（2）甲图中 A、B、C 三地中，昼由长到短的排列是_____，自转线速度由大到小排列是_____，角速度的大小关系是_____。（6 分）

（3）此刻，B 点上可以观测到现象_____（填“日出”或“日落”），B 点昼长是_____小时。 （2 分）

（4）此时，全球正午太阳高度的分布状况是_____， C 点的昼夜长短状况是_____。（3 分）

由 扫描全能王 扫描创建

2018年秋学期贺州市非示范性高中

高一期考地理参考答案

一、选择题

1-5　A B D C B　　6-10　A D A B B　　11-15 C B B C A

16-20　C D C A C　　21.-25　D B D C D

二、综合题

26.（1）断层　背斜　（2分）

（2）水汽输送　海陆间（大）　陆地水　（3分）

（3）山岭　向斜槽部受挤压，岩石比较坚硬，不易被侵蚀　（3分）

（4）冲积扇（洪积扇）　山区河流流出山口，流速减慢，其携带的大量碎石和泥沙在山前堆积。（4分）

27.（1）赤道低气压带　东北信风　（2分）

（2）夏　低　（2分）

（3）副热带高　盛行西风　（2分）

（4）地中海气候　亚热带常绿硬叶带　温和多雨　炎热干燥　（4分）

（5）太阳辐射　大气环流（2分）

28.（1）秘鲁渔场　该处有上升流，从海洋底部带来大量的营养物质（3分）

（2）暖　寒　增温增湿　降温减湿　（4分）

（3）加快净化速度；扩大污染范围　（2分）　（从有利、不利影响来答题）

（4）①　；北太平洋暖流（3分）

29.（1）冬至；　（23.5°S，90°E）或（90°E，23.5°S）

注意：(23.5°S 也可表示23°26′S或者南回归线)　（3分）

（2）A>C>B　A>C>B　A=B=C　（6分）

（3）日落；　6小时　（2分）

（4）由23.5°S　(23°26′S或者南回归线)向南北两侧递减　（2分）；

昼短夜长(1分)